Ad Soyadı	VERİ VE GRAFİK ETKİNLİĞİ-2	Veli imzası

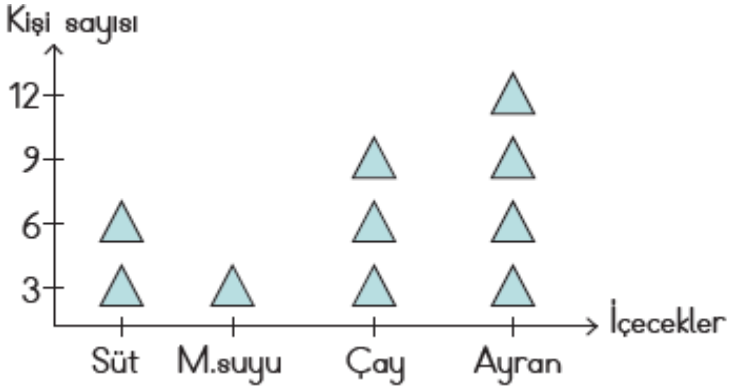

1. Grafiğe bir isim verin.

.....

2. Ayran sevenler meyve suyu sevenlerden kaç fazladır?.....

3. Kaç çay seven daha olsaydı ayrana eşit olurdu?.....

4. Çay ve ayran sevenlerin toplamı meyve suyu sevenlerden kaç fazladır?.....

5.Her başlığa bir şekil eklersek kaç kişi artmış olur?.....

6. Sınıfta toplam kaç kişi vardır?.....

Grafiğin sıklık ve çetele tablosunu aşağıya çizin

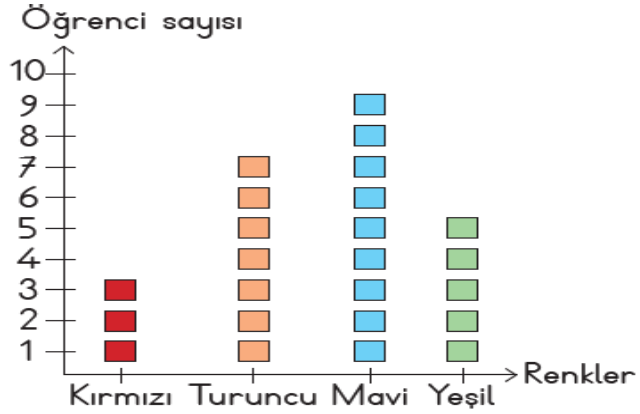

1. Grafiğe bir isim verin.

.....

2. Kaç turuncu seven olsaydı yeşilin iki katı olurdu?.....

3. Kırmızı ve turuncu sevenlerin toplamı, mavi sevenlerden kaç fazladır? ?.....

4. Mavi sevenlerden kaç tanesi turuncuya geçseydi ikisi de eşit olurdu?.....

5.Kırmızı sevenlerin üç katı hangi renge eşittir?

.....

6. Sınıfta kaç öğrenci vardır?.....

Grafiğin sıklık ve çetele tablosunu aşağıya çizin

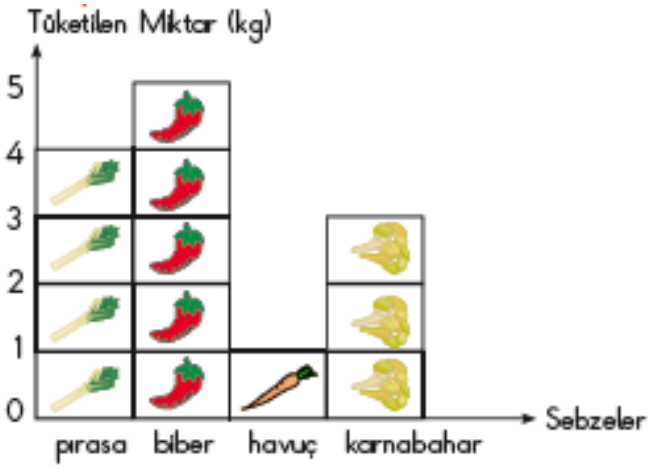

1. Grafiğe bir isim verin.

.....

2. Pırasanın kilosu 2 TL olduğuna göre pırasaya kaç TL ödenmiştir?.....

3. Kaç kilo karnabahar alsaydı biberin iki katı olurdu?.....

4. Salata için 3 kg havuç gerekli olduğuna göre kaç kg daha havuç gerekir?.....

5.2 kg pırasa parasına 1 kg biber alındığına göre bibere kaç TL verilmiştir? ?.....

6. Toplam kaç kg sebze alınmıştır?.....

Grafiğin sıklık ve çetele tablosunu aşağıya çizin

1. Grafiğe bir isim verin.

.....

2. Saatlerin sayısı ayılardan kaç fazladır?

.....

3. Şemsiye ve çantaların toplamı kaçtır?

.....

4. Ayı ve çantaların toplamı saatlerden kaç fazladır?.....

5.Kaç çanta satılsaydı ayıların iki katı olurdu?

.....

6. Toplam kaç eşya satılmıştır?.....

Grafiğin sıklık ve çetele tablosunu aşağıya çizin

MAHMUT ÇÜRÜK ÇALIŞMALARI