YER VE YÖN BULMA ETKİNLİĞİ

Adı Soyadı..... Veli İmzası:.....

Aşağıdaki soruları cevaplayın

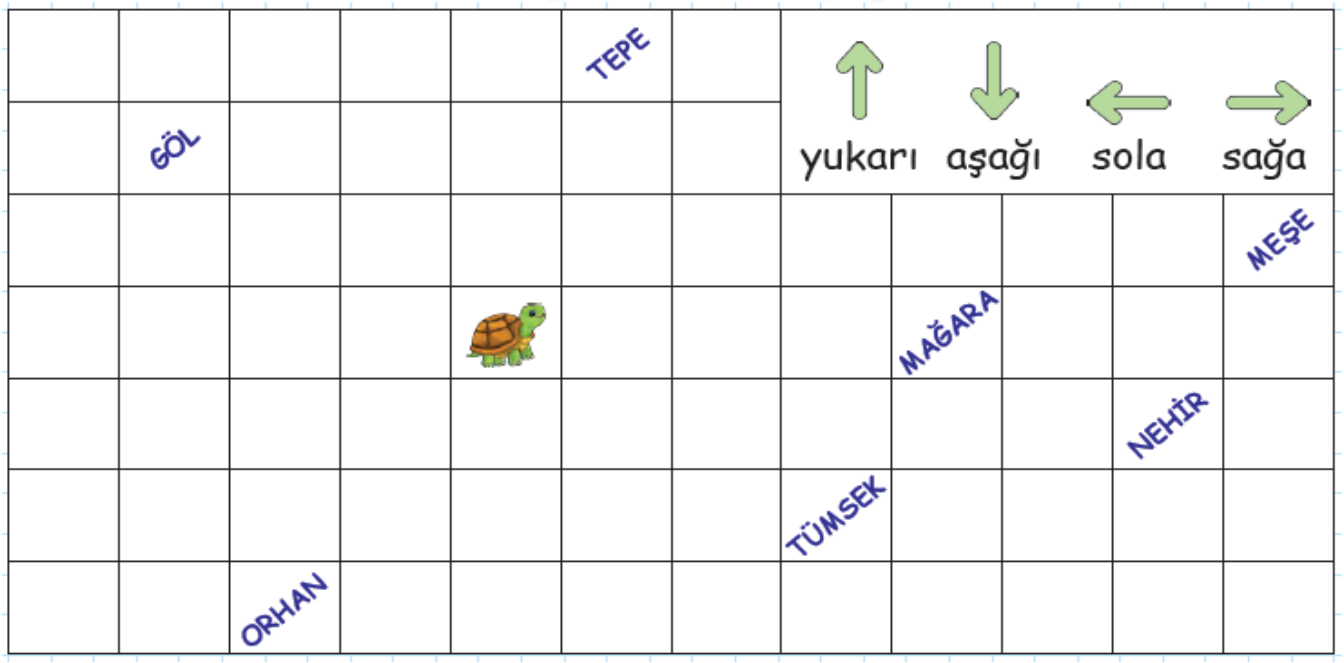

1.

Kaplumbağa, yukarıdaki yönlerde ilerlediğinde hangisine ulaşır?

.....

2.

Kaplumbağa, yukarıdaki yönlerde ilerlediğinde hangisine ulaşır?

.....

3. 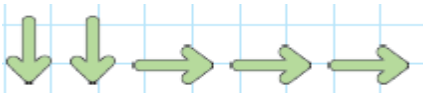

Kaplumbağa, yukarıdaki yönlerde ilerlediğinde hangisine ulaşır?

.....

4. 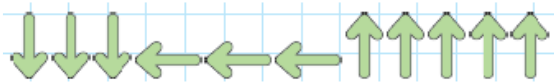

Kaplumbağa, yukarıdaki yönlerde ilerlediğinde hangisine ulaşır?

.....

5. 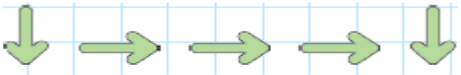

Kaplumbağa, yukarıdaki yönlerde ilerlediğinde hangisine ulaşır?

.....

6.

Kaplumbağa, yukarıdaki yönlerde ilerlediğinde hangisine ulaşır?

.....